Läs av digitala klockor

Vad är klockan? Skriv tiden med ord på linjen.



_____



_____

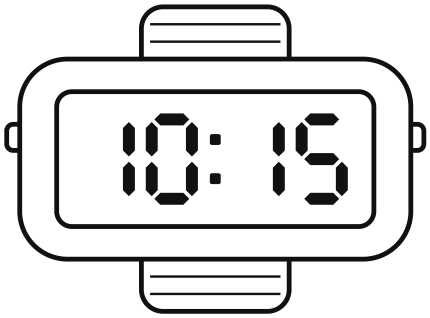

_____



_____

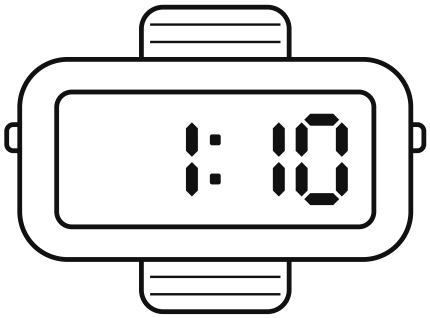

_____



_____

Namn: _____

Färglägg den digitala klockan

Färglägg rätt streck så att klockan visar tiden under.

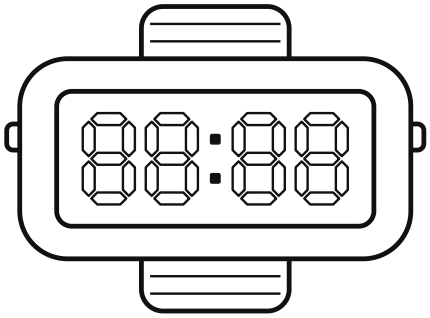

klockan fem

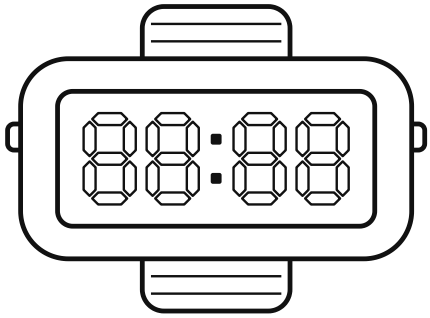

halv tre

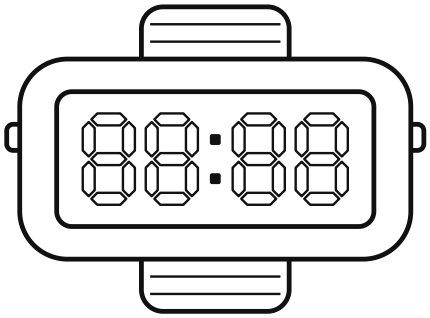

kvart över tio

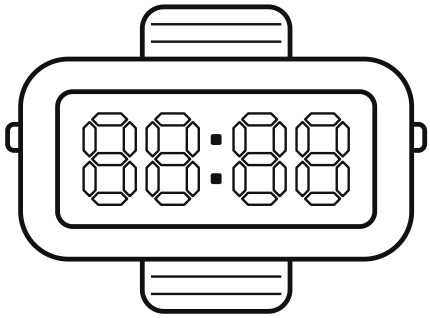

kvart i tio

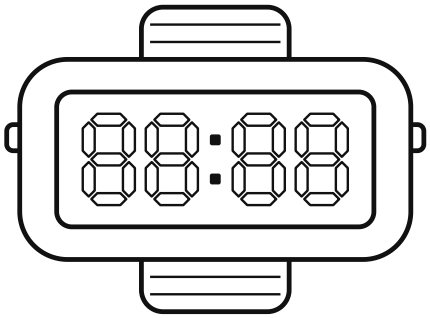

tjugo över elva

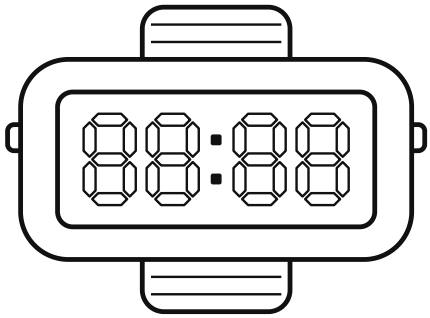

tio i fem

Namn: _____

Från digital till analog klocka

Rita visarna så att urtavlan visar samma tid.



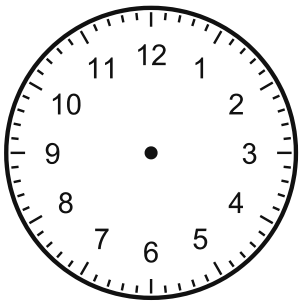



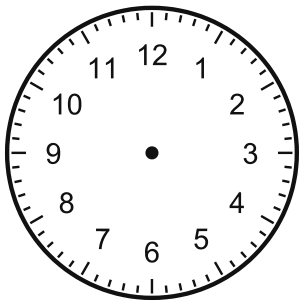



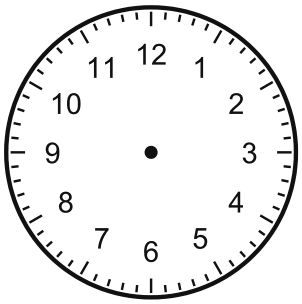



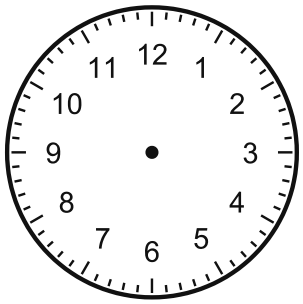



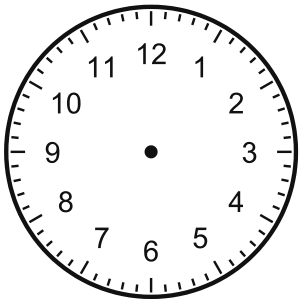



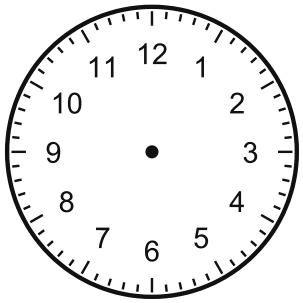

Namn: _____

Para ihop analoga och digitala klockor

Dra ett streck mellan klockor som visar samma tid.

























Namn: _____

24-timmarsklockan

Räkna bort 12 timmar och skriv tiden med siffror.

Exempel: 15:30 är samma tid som 3:30 på eftermiddagen.





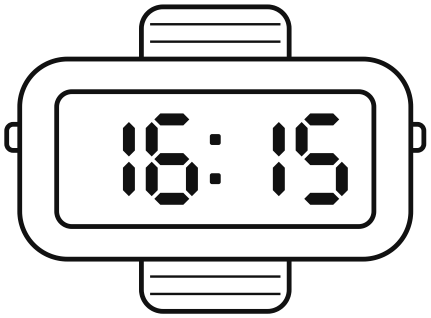







Namn: _____