Talet 0

Säg talet. Räkna, spåra och skriv.

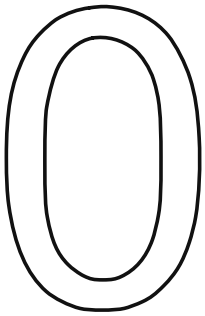

Inga markeringar: det är noll.

Spåra talet med pennan.

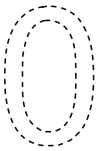

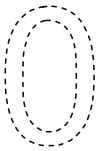

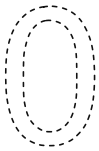

Skriv talet själv.

Noll prickar: lämna rutan tom.

Namn: _____

Talet 1

Säg talet. Räkna, spåra och skriv.

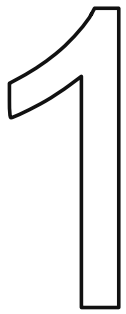

Räkna markeringarna. Varje ram har tio rutor.

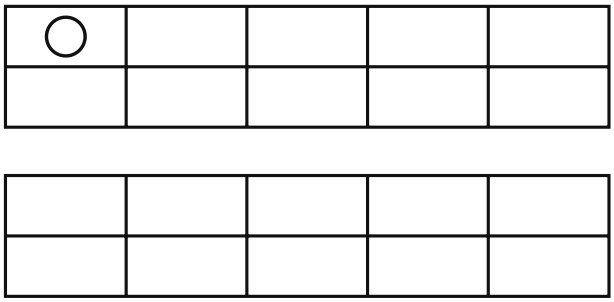

Spåra talet med pennan.

1 1 1

Skriv talet själv.

Rita lika många prickar.

Namn: _____

Talet 2

Säg talet. Räkna, spåra och skriv.



Räkna markeringarna. Varje ram har tio rutor.

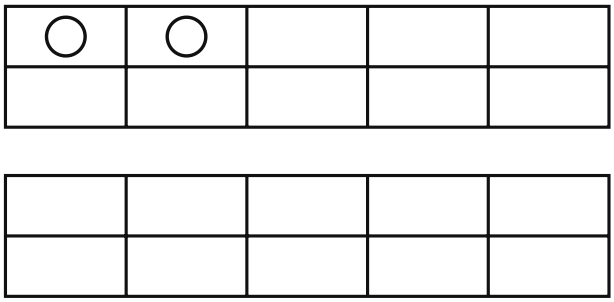

Spåra talet med pennan.

2 2 2

Skriv talet själv.

Rita lika många prickar.

Namn: _____

Talet 3

Säg talet. Räkna, spåra och skriv.



Räkna markeringarna. Varje ram har tio rutor.

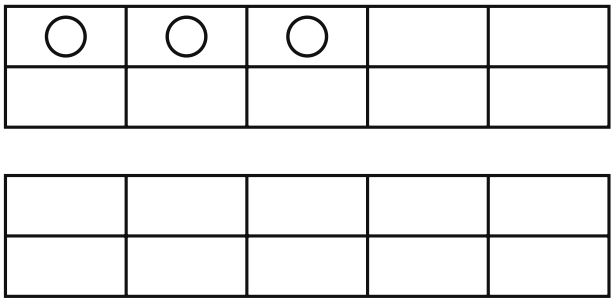

Spåra talet med pennan.

3 3 3

Skriv talet själv.

Rita lika många prickar.

Namn: _____

Talet 4

Säg talet. Räkna, spåra och skriv.



Räkna markeringarna. Varje ram har tio rutor.

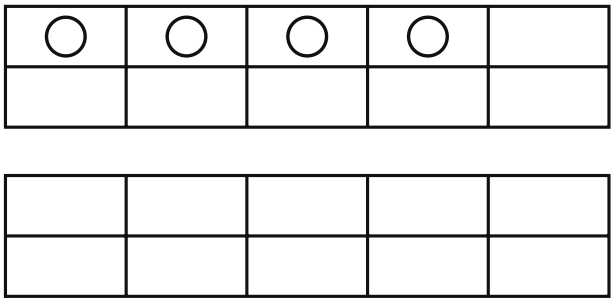

Spåra talet med pennan.

4 4 4

Skriv talet själv.

Rita lika många prickar.

Namn: _____

Talet 5

Säg talet. Räkna, spåra och skriv.



Räkna markeringarna. Varje ram har tio rutor.

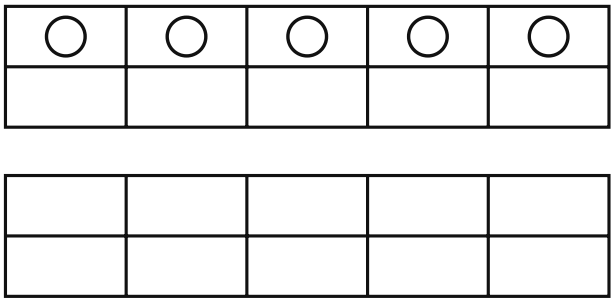

Spåra talet med pennan.

5 5 5

Skriv talet själv.

Rita lika många prickar.

Namn: _____

Talet 6

Säg talet. Räkna, spåra och skriv.



Räkna markeringarna. Varje ram har tio rutor.

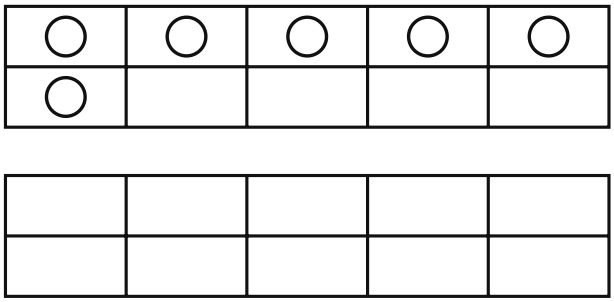

Spåra talet med pennan.

6 6 6

Skriv talet själv.

Rita lika många prickar.

Namn: _____

Talet 7

Säg talet. Räkna, spåra och skriv.



Räkna markeringarna. Varje ram har tio rutor.

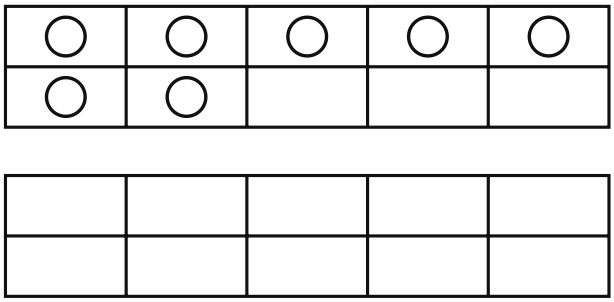

Spåra talet med pennan.

7 7 7

Skriv talet själv.

Rita lika många prickar.

Namn: _____

Talet 8

Säg talet. Räkna, spåra och skriv.



Räkna markeringarna. Varje ram har tio rutor.

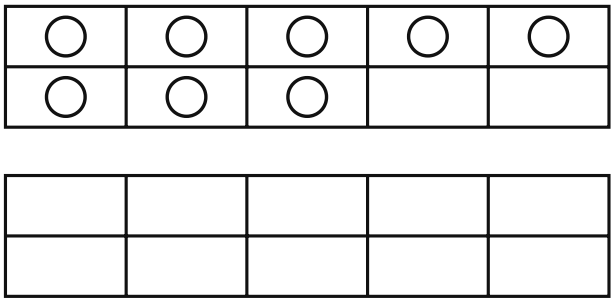

Spåra talet med pennan.

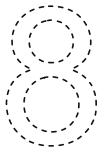

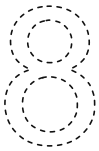

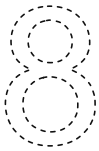

Skriv talet själv.

Rita lika många prickar.

Namn: _____

Talet 9

Säg talet. Räkna, spåra och skriv.



Räkna markeringarna. Varje ram har tio rutor.

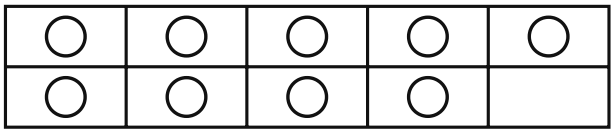



Spåra talet med pennan.

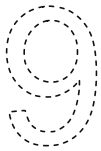

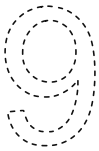

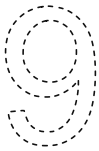

Skriv talet själv.

Rita lika många prickar.

Namn: _____

Talet 10

Säg talet. Räkna, spåra och skriv.

10

Räkna markeringarna. Varje ram har tio rutor.

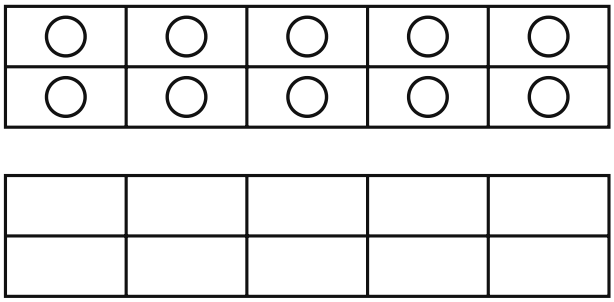

Spåra talet med pennan.

10 10 10

Skriv talet själv.

Rita lika många prickar.

Namn: _____

Talet 11

Säg talet. Räkna, spåra och skriv.

11

Räkna markeringarna. Varje ram har tio rutor.

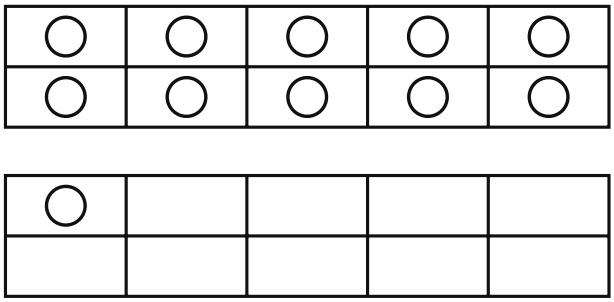

Spåra talet med pennan.

11 11 11

Skriv talet själv.

Rita lika många prickar.

Namn: _____

Talet 12

Säg talet. Räkna, spåra och skriv.

12

Räkna markeringarna. Varje ram har tio rutor.

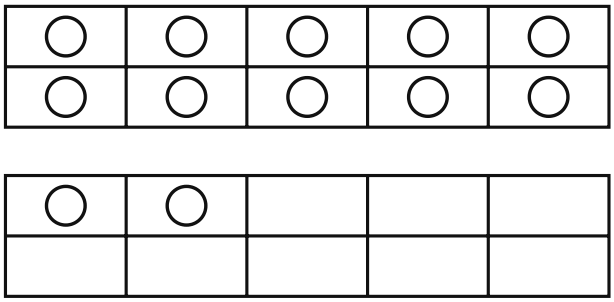

Spåra talet med pennan.

12 12 12

Skriv talet själv.

Rita lika många prickar.

Namn: _____

Talet 13

Säg talet. Räkna, spåra och skriv.

13

Räkna markeringarna. Varje ram har tio rutor.

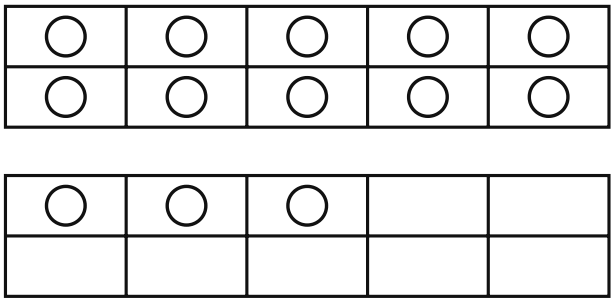

Spåra talet med pennan.

13 13 13

Skriv talet själv.

Rita lika många prickar.

Namn: _____

Talet 14

Säg talet. Räkna, spåra och skriv.

14

Räkna markeringarna. Varje ram har tio rutor.

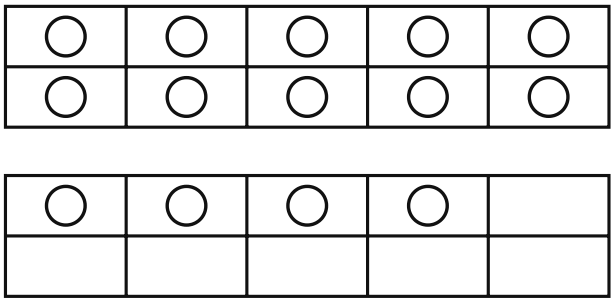

Spåra talet med pennan.

14 14 14

Skriv talet själv.

Rita lika många prickar.

Namn: _____

Talet 15

Säg talet. Räkna, spåra och skriv.

15

Räkna markeringarna. Varje ram har tio rutor.

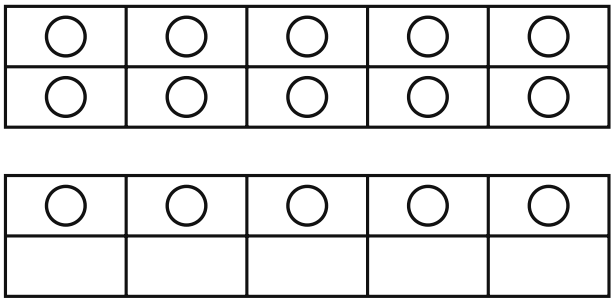

Spåra talet med pennan.

15 15 15

Skriv talet själv.

Rita lika många prickar.

Namn: _____

Talet 16

Säg talet. Räkna, spåra och skriv.

16

Räkna markeringarna. Varje ram har tio rutor.

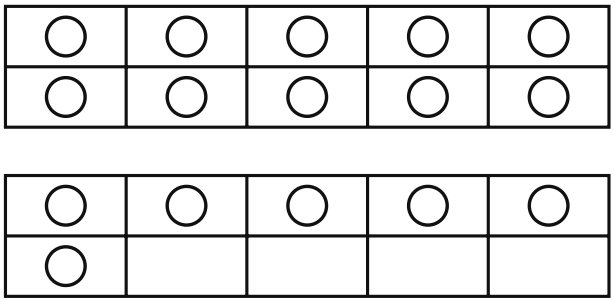

Spåra talet med pennan.

16 16 16

Skriv talet själv.

Rita lika många prickar.

Namn: _____

Talet 17

Säg talet. Räkna, spåra och skriv.

17

Räkna markeringarna. Varje ram har tio rutor.

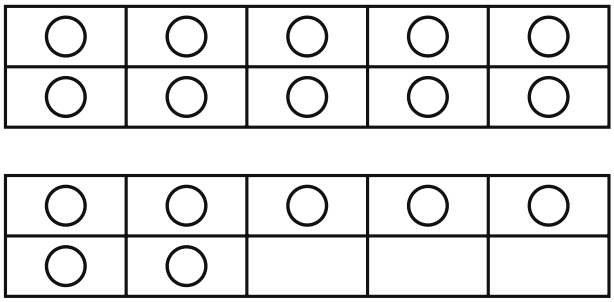

Spåra talet med pennan.

17 17 17

Skriv talet själv.

Rita lika många prickar.

Namn: _____

Talet 18

Säg talet. Räkna, spåra och skriv.

18

Räkna markeringarna. Varje ram har tio rutor.

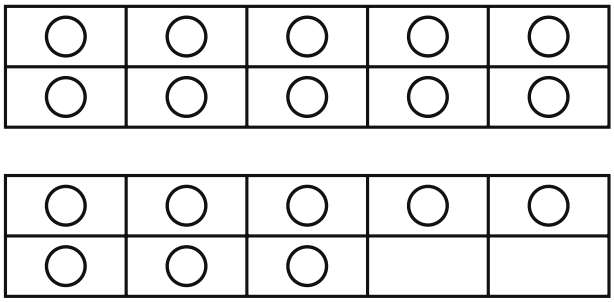

Spåra talet med pennan.

18 18 18

Skriv talet själv.

Rita lika många prickar.

Namn: _____

Talet 19

Säg talet. Räkna, spåra och skriv.

19

Räkna markeringarna. Varje ram har tio rutor.

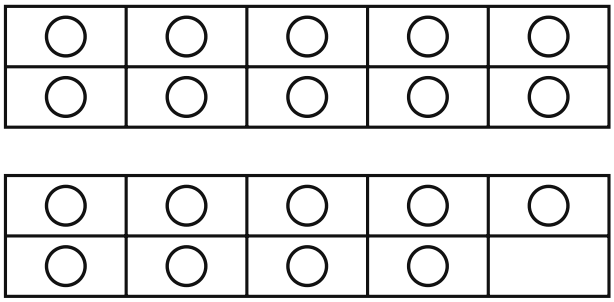

Spåra talet med pennan.

19 19 19

Skriv talet själv.

Rita lika många prickar.

Namn: _____

Talet 20

Säg talet. Räkna, spåra och skriv.

20

Räkna markeringarna. Varje ram har tio rutor.

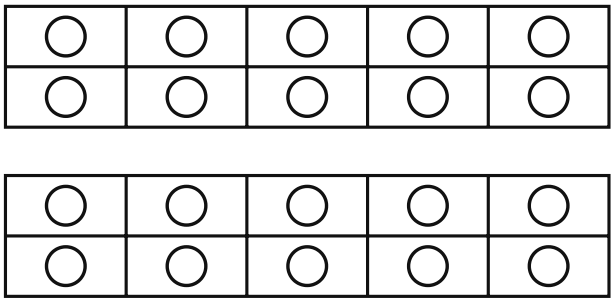

Spåra talet med pennan.

20 20 20

Skriv talet själv.

Rita lika många prickar.

Namn: _____